

อนุบาล | คิดเลขเร็ว

คู่รวมสิบ ชุดที่ 2

นับจุดในตาราง แล้วเติมว่าต้องเพิ่มอีกกี่ช่องจึงจะครบ 10

ชื่อ .....

คู่รวมสิบ: เลขสองตัวที่รวมกันได้ 10

1 มีจุด 7 ช่อง

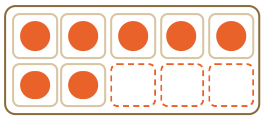

→

2 ช่องว่างเหลือ 3 ช่อง

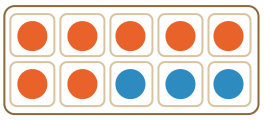

→

3 7 + 3 = 10

7 กับ 3 เป็นคู่รวมสิบ



จำคู่รวมสิบให้ได้: 1 กับ 9 | 2 กับ 8 | 3 กับ 7 | 4 กับ 6 | 5 กับ 5

ลองทำเอง

1.  1 + ☐ = 10

2. 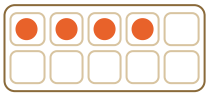 4 + ☐ = 10

3. 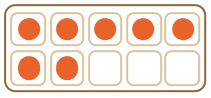 7 + ☐ = 10

4. 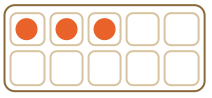 3 + ☐ = 10

5. 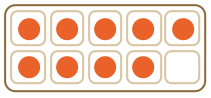 9 + ☐ = 10

6. 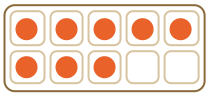 8 + ☐ = 10

7. 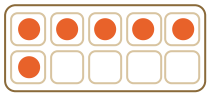 6 + ☐ = 10

8. 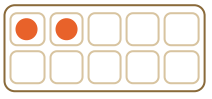 2 + ☐ = 10

9. 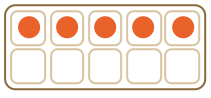 5 + ☐ = 10

10. 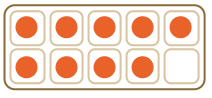 9 + ☐ = 10

11. 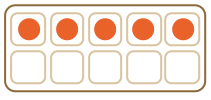 5 + ☐ = 10

12. 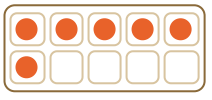 6 + ☐ = 10

เฉลย: 1) 9 2) 6 3) 3 4) 7 5) 1 6) 2 7) 4 8) 8 9) 5 10) 1 11) 5 12) 4

ใบงานจาก เจ้าป่าและนาคจิ๋ว ผจญภัยหิมพานต์ himmapanquest.com
คลังใบงานทุกระดับชั้น พร้อมเกมและการ์ตูนเจ้าป่ากับนาคจิ๋ว พิมพ์แจกในห้องเรียนหรือที่บ้านได้