

อนุบาล | คิดเลขเร็ว

คู่รวมสิบ ชุดที่ 1

นับจุดในตาราง แล้วเติมว่าต้องเพิ่มอีกกี่ช่องจึงจะครบ 10

ชื่อ .....

คู่รวมสิบ: เลขสองตัวที่รวมกันได้ 10

1 มีจุด 7 ช่อง → **2** ช่องว่างเหลือ 3 ช่อง → **3** 7 + 3 = 10 — 7 กับ 3 เป็นคู่รวมสิบ



จำคู่รวมสิบให้ได้: 1 กับ 9 | 2 กับ 8 | 3 กับ 7 | 4 กับ 6 | 5 กับ 5

ลองทำเอง

1. 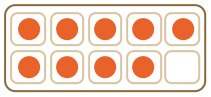 9 + ☐ = 10
2. 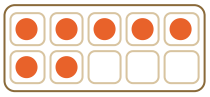 7 + ☐ = 10
3. 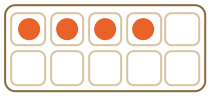 4 + ☐ = 10
4.  2 + ☐ = 10
5. 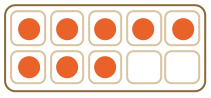 8 + ☐ = 10
6.  1 + ☐ = 10
7. 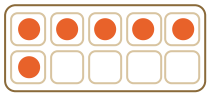 6 + ☐ = 10
8. 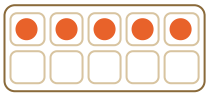 5 + ☐ = 10
9. 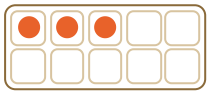 3 + ☐ = 10
10. 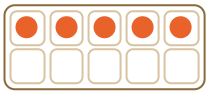 5 + ☐ = 10
11.  1 + ☐ = 10
12.  9 + ☐ = 10

เฉลย: 1) 1 2) 8 3) 6 4) 8 5) 2 6) 9 7) 4 8) 5 9) 7 10) 5 11) 9 12) 1



ใบงานจาก เจ้าป่าและนาคจิ๋ว ผจญภัยหิมพานต์ himmapanquest.com
คลังใบงานทุกระดับชั้น พร้อมเกมและการ์ตูนเจ้าป่ากับนาคจิ๋ว พิมพ์แจกในห้องเรียนหรือที่บ้านได้